Reto 1: Resuelve las sumas.

Cuenta los dibujos y escribe el resultado.

1



2



3

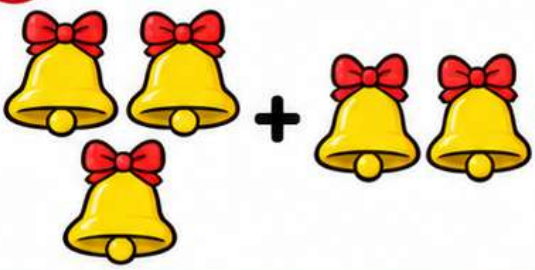

4



5



6



7



8

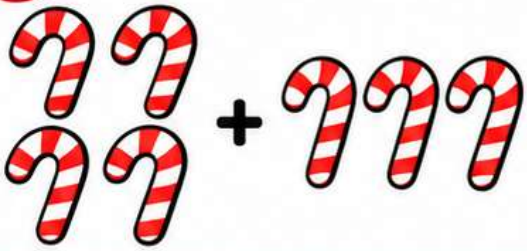



Reto 2: Completa las series.



Escribe los números que faltan.

1

1, 2, ☐, 4, 5, ☐

2

10, 12, ☐, 16, ☐, 20

3

5, 10, ☐, 20, ☐, 30

4

30, 29, ☐, 27, ☐, 25

5

2, 4, ☐, 8, ☐, 12

6

15, 20, ☐, 30, ☐, 40

7

50, 40, ☐, 20, ☐, 0

8

100, 200, ☐, 400, ☐, 600

Reto 3: Pirámides numéricas

Completa las pirámides. Cada casilla es la suma de las dos casillas de abajo.



15		
7	8	5



	18	
9	6	12



	24	
6	8	2



19		
11	8	7



	21	
9	12	9



17		
8	9	5

Reto 4: Cuadrados mágicos

Completa cada cuadrado con los números que faltan.
La suma de cada fila, columna y diagonal debe ser la misma.



Suma: 15

8		6
	5	
4		2



Suma: 18

7		9
	6	
3		5



Suma: 21

8	9	4
3		
10		6



Suma: 24

9		5
	8	
	6	

Reto 5: Sudokus numéricos

Completa cada sudoku con los números del 1 al 4, de modo que no se repita ningún número en la misma fila, columna ni en cada cuadrado.



Sudoku 1

1		3	
	4		2
3		2	
	2		4



Sudoku 2

	2		4
4		1	
	1		2
2		4	



Sudoku 3

2		4	
	3		1
4		1	
	1		3



Sudoku 4

	4		2
3		2	
	2		3
4		1	

Créditos y normas de uso

Actividades de Infantil y Primaria

Agradezco la confianza e interés en estas actividades que fueron creadas con mucho cariño y dedicación. Espero sinceramente que estos materiales les ayuden y que impacten en el aprendizaje de los alumnos y alumnas jugando, creando e innovando.

Todos los derechos reservados por Actividades de Infantil y Primaria . Queda prohibido distribuir, reproducir o vender este material por cualquier medio ya sea electrónicamente o de manera impresa, así como reclamarlo como propio e intentar modificar o quitar avisos de copyright, logos o marcas de agua ya que se encuentra protegido por los derechos de autor. El incumplimiento es una violación a la Ley de los Derechos de Autor y tendrá consecuencias legales.

©opyright

Suscríbete en https://www.actividadesdeinfantilyprimaria.com/

Créditos

Imágenes IA freepik flaticon